期中综合测试（1~11课）

一、单项选择题

1. 在下列北京市的建筑中，1949 年参加中国人民政治协商会议的代表能见到的是（　　）

A. 天安门城楼　　B. 人民大会堂

C. 人民英雄纪念碑　　D. 毛泽东主席纪念堂

2. 年代尺有助于我们了解事件的先后顺序和时代主题。下面是一位同学设计的年代尺，这位同学探究的主题（　　）

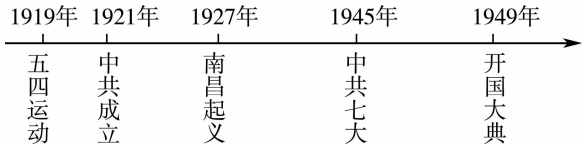

A. 侵略与反抗

B. 新民主主义革命

C. 近代化的探索

D. 新中国的成立和巩固

3. 下列运动，对我国生产力发展起了促进作用的是（　　）

A. 土地改革运动

B. “大跃进”运动

C. 人民公社化运动

D. “文化大革命”

4. 新中国成立后，党和国家非常重视民主法制建设，我国第一部社会主义类型的宪法是（　　）

A.《中华人民共和国土地改革法》

B.《中华人民共和国刑法》

C.《共同纲领》

D.《中华人民共和国宪法》

5. （2015·无锡）2014 年 3 月，437 位志愿军烈士遗骸抵达沈阳烈士陵园，“战机护回程，忠魂归故里”，他们将与黄继光、邱少云等英雄同眠。与此事相关的历史事件是（　　）

A. 甲午中日战争　　B. 抗日战争

C. 解放战争　　D. 抗美援朝战争

6. 春联的内容往往和社会的历史变迁相联系。以下春联中能反映我国“一五”计划实施期间社会状况的是（　　）

A. 毛主席挥手指方向，合作化道路宽又广

B. 港澳回归齐欢庆，一国两制谱新篇

C. 誓做抓革命的闯将，争当促生产的模范

D. 粮补机补助幸福，医保社保保平安

7. 党的一切奋斗和工作都是为了造福人民，实现好、维护好广大人民群众根本利益历来是中国共产党农村工作的出发点和落脚点。下列标志着我党已实现彻底消灭封建土地制度，真正解放农民这一目标的事件是（　　）

A. 土地改革的完成

B. 对农业的社会主义改造

C. 人民公社化运动的开展

D. 家庭联产承包责任制的推行

8. “中共八大”“国民经济的调整”“文化大革命”共同反映出的时代主题是（　　）

A. 走向社会主义之路

B. 社会主义道路的探索

C. 跑步进入共产主义

D. 建设中国特色社会主义

9. 中国共产党第八次全国代表大会是探索建设社会主义道路的良好开端。这次会议（　　）

A. 公布了过渡时期总路线

B. 制定了第一部社会主义类型的宪法

C. 正确分析了国内主要矛盾

D. 首次提出了和平共处五项原则

10. 1956～1976 年，中国社会主义建设取得巨大成就，也出现严重失误。出现失误的原因是（　　）

A. 全党缺乏领导大规模经济建设的经验

B. 人民群众缺乏建设社会主义的积极性

C. 各地频繁发生洪水、干旱等自然灾害

D. 美国等西方国家对中国的包围和封锁

11. （2015·锦州）中华民族在近百年艰苦卓绝的伟大复兴历程中，通过“中国新生”和“伟大转折”实现了国家的独立与富强。“中国新生”和“伟大转折”分别是指（　　）

A. 新中国诞生；三大改造的完成

B. 新中国诞生；党的十一届三中全会召开

C. 中国共产党成立；新中国诞生

D. 抗战胜利；新中国成立

12. 2003 年 8 月，温家宝在长春召开振兴东北老工业基地决策会议，正式把振兴东北等老工业基地列为国家发展战略。实施东北地区等老工业基地振兴战略五年多来，振兴东北地区等老工业基地工作取得了重要的阶段性成果。东北老工业基地形成于（　　）

A. 新中国建立时期
B. 新中国建立前
C. 第一个五年计划时期
D. 社会主义三大改造时期

13. (2015·无锡)在如今“中国流行语”排行榜上，赫然在列的有“中国梦”“正能量”等词句。20世纪以来，中华民族为了实现自己的梦想，经历了90多年的探索历史，按时间先后顺序 实现了以下哪些梦想(　　)
A. 独立梦、强国梦、飞天梦、回归梦
B. 振兴梦、独立梦、崛起梦、统一梦
C. 觉醒梦、独立梦、崛起梦、飞天梦
D. 觉醒梦、振兴梦、独立梦、统一梦

14. 当时的报纸上宣传“人有多大胆，地有多大产”，形象地反映了社会主义道路探索过程中的失误。你认为造成这些失误的原因是(　　)
① 党和人民对我国社会主义所处的发展阶段认识不足　② 由于朝鲜战争的影响　③ 急于求成　④ 忽视了客观经济规律
A. ①②③　　B. ①③④
C. ②③④　　D. ①②③④

15. “农业丰则基础强，农民富则国家盛，农村稳则社会安。”中国共产党历来重视“三农”问题。下列哪一项不属于党和政府为解决“三农”问题而采取的措施(　　)
A. 1950～1952年的土地改革
B. 1953年开始的农业合作化运动
C. 1966～1976年的“文化大革命”
D. 近年来实施的农村合作医疗保险

16. 下图中人口死亡率最高点与自然增长率最低点出现的主要原因是(　　)

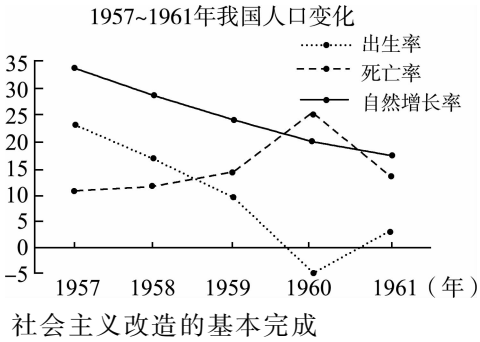

A. 社会主义改造的基本完成
B. 国民经济的调整
C. “大跃进”与人民公社化运动
D. “文化大革命”爆发

17. 下图是20世纪70年代小岗村18位农民按下红手印的“包产到户”契约。下列对这一契约出现原因的叙述，不正确的是(　　)

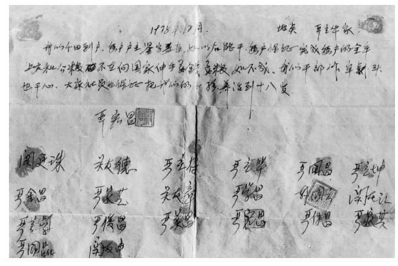

A. 人民公社调动了农民的生产积极性
B. 农民渴望改变贫穷落后的生活状况
C. 农民缺少生产自主权
D. 农民家庭收入很少

18. 1984年刚上任青岛电冰箱厂厂长的张瑞敏说：“欢迎我的是53份请假报告，上班八点钟来，九点钟走人，十点钟时，随便往大院里扔一个手榴弹也炸不死人。”出现这一情景的原因是(　　)
① 计划经济体制下，企业职工缺乏积极性
② 多种所有制形式并存，职工下海经商
③ 分配中平均主义现象严重　④ 企业吃国家的“大锅饭”
A. ①②③　　B. ②③④
C. ①②④　　D. ①③④

19. 既是我国城市经济体制改革的重点，同时也是一场攻坚战的是(　　)
A. 实行家庭联产承包责任制
B. 废除人民公社制度
C. 建立经济特区
D. 国有企业改革

20. 右图所示：1984年3月24日，55位厂长、经理联名在报纸上发出“请给我们‘松绑’”的呼吁。他们要求“松绑”就是迫切要求(　　)

福建日报
FUJIAN RIBAO
五十五名厂长、经理呼吁
请给我们“松绑”

A. 设立经济特区
B. 优先发展重工业
C. 扩大企业自主权
D. 建立社会主义市场经济体制

21. 流行语往往带有明显的时代特征，流行语是一个时代的烙印。下列流行语哪一组是反映改革开放时代的(　　)
A. “公私合营”“改造”
B. “一大二公”“大炼钢铁”
C. “走资派”“革命不是请客吃饭”
D. “大包干”“招商引资”

22. 归纳和整理是学习历史的有效方法之一，下列搭配不正确的一项是(　　)

A. 中共十一届三中全会——改革开放
B. 中共十三大——社会主义初级阶段基本路线
C. 中共十四大——建立社会主义市场经济体制
D. 中共十五大——提出“四个全面”战略布局

23. 中国梦宏伟蓝图的基本内涵不包括（　　）
A. 社会和谐　　B. 国家富强
C. 民族振兴　　D. 人民幸福

24. 票据是历史的浓缩与见证。下图中的票据见证了（　　）

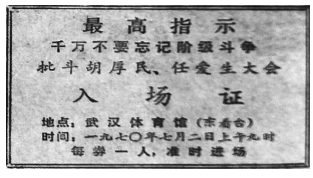

A. 抗美援朝战争的爆发
B. 三大改造的基本完成
C. “大跃进”开展的盛况
D. “文革”时期民主法制遭到破坏

25. 下列选项中，能够体现新中国成立以来我党创新精神的是（　　）
① 第一个五年计划的实施　② 资本主义工商业改造过程中的赎买政策　③ 家庭联产承包责任制　④ 农村包围城市，武装夺取政权
A. ②③　　B. ②③④
C. ①②③　　D. ①②③④

二、材料分析题

26. 探究新中国的国防建设与民主法制建设，回答下列问题：

【国防建设篇】

材料一　如下图

(1) 材料一反映了我国在国防方面取得了什么辉煌成就？有何重大历史意义？

【民主法制篇】

材料二　中华人民共和国是工人阶级领导的、以工农联盟为基础的人民民主国家……中华人民共和国的一切权力属于人民。

材料三　如下图

(2) 材料二出自一部重要法律文献，该文献是在什么会议上制定的？新中国建立初期与该文献作用相似的一部重要文献是什么？

(3) 材料三反映的事件与一场政治运动有关，该运动对我国的民主法制建设有何影响？该事件有何历史意义？

27. 探究新中国成立以来的经济发展，回答下列问题。

【农业改革篇】

我国是一个农业大国，党和政府历来十分关注“三农”问题。请依据所学知识和下列提示语，依次写出新中国对“三农”问题采取的措施。

(1) ① 废地主，分田地，农民笑逐颜开——进行土地改革
② 齐合作，促生产，农民积极参与——（　　）
③ 高浮夸，纯共有，农村贫穷落后——（　　）
④ 大包干，实惠多，农业重获丰收——（　　）

【工业建设篇】

材料一 重轻工业在工业总产值中所占比重表(如下图)

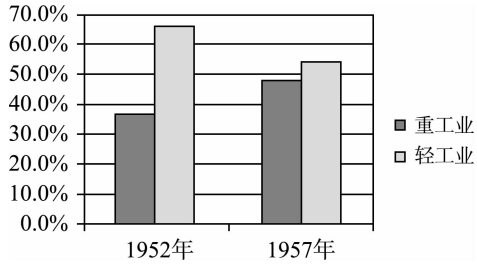

材料二 天上多少星,小孩数不清。全民盖土炉,神仙数不清。

——1958年歌谣

(2) 材料一表明我国当时工业化的特点是什么?结合所学知识说明出现此特点的必要性。

(3) 材料二所反映的运动是在哪一路线影响下发起的?

【城市发展篇】

材料三 如下图

对外开放的"窗口"

长江流域经济发展的"龙头"

(4) 材料三图片中的两座城市经济的发展分别得益于国家的什么重要决策?

28. 习近平同志强调"中国梦是民族的梦,也是每个中国人的梦"。为追求民族独立和富民强国,历代中国人进行了艰苦的努力和奋斗。阅读材料,回答下列问题。

【民族独立梦】

材料一 中国共产党领导中国人民经过28年艰苦卓绝的英勇斗争,终于推翻帝国主义、封建主义和官僚资本主义的反动统治,取得了新民主主义革命的伟大胜利,赢得了民族独立。

——摘编自《中国共产党历史》第一卷

(1) 请写出材料一中"28年艰苦卓绝英勇斗争"的起止时间,并简答"取得新民主主义革命伟大胜利"的世界意义。

【富民强国梦】

材料二 三十余年来,从"民以食为天"的温饱阶段,到"一部分人先富起来",再到中国成为全球第二大经济实体,一条创富之路拾级而上。……于当前的中国人而言,富足之梦,是由温饱向富裕的转变,更是由"一部分人先富裕起来"向全民共富的质跃,称之为当代中国人最为现实的中国梦,实为客观之论。

——2014年李克强总理所作政府工作报告

(2) 李克强总理提到的"一条创富之路"指的是什么道路?开始于哪一年?

材料三 习近平指出,每个人都有理想和追求,都有自己的梦想。现在,大家都在讨论中国梦,我以为,实现中华民族伟大复兴,就是中华民族近代以来最伟大的梦想。

(3) 请依据所学知识指出习近平阐述的中国梦宏伟蓝图的基本内涵是什么。为此中国共产党确立了怎样的奋斗目标?